ДОРОЖНОЕ ДВИЖЕНИЕ: ТЕРМИНЫ, ИСПОЛЬЗУЕМЫЕ В ПРАВИЛАХ

ОБЪЕЗД ПРЕПЯТСТВИЯ

1-е задание. Какая ситуация является **ОБГОНОМ**, а какая – **ОПЕРЕЖЕНИЕМ**?

А – обгон **В** – опережение

ОБЪЕЗД ПРЕПЯТСТВИЯ

2-е задание. Как велосипедисту объехать препятствие? Расставь картинки в нужном порядке.

5 – велосипедист показывает правый поворот, чтобы вернуться на свою полосу движения

4 – велосипедист медленно объезжает препятствие

6 – велосипедист вернулся на свою полосу и продолжает движение

3 – велосипедист убедился, не идет ли навстречу транспортное средство

2 – велосипедист показывает правый поворот, чтобы объехать препятствие

1 – велосипедист оглянулся, чтобы оценить ситуацию и принять решение, как объехать препятствие

ОТВЕТЫ

ДОРОЖНЫЕ ЗНАКИ И РАЗМЕТКА

3-е задание. О чем информирует каждый дорожный знак?

1.
- A Запрещено движение для велосипедистов
- B Велосипедная дорожка
- C Пересечение с велосипедной дорожкой (или впереди велосипедная дорожка)

2.
- A Ехать прямо
- B Одностороннее движение

3.
- A Ехать направо
- B Поворот направо запрещен
- C Опасный поворот
- D Полоса направления движения

4.
- A Преимущество перед встречным движением
- B Преимущество встречного движения
- C Двустороннее движение

5.
- A Впереди пешеходный переход
- B Пешеходная дорожка
- C Пешеходный переход
- D Пешеходный маршрут

4-е задание. Запиши номер дорожного знака и определи, где он должен находиться на видимом перекрестке.

A

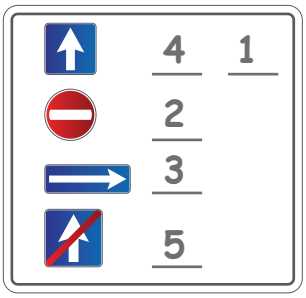

B

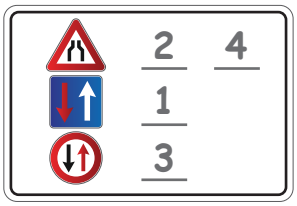

ОТВЕТЫ

СИГНАЛЫ

1-е задание. Где должны находиться велосипедисты в данной ситуации?

С

2-е задание. Кто первым пересечет перекресток в данной ситуации?

А

3-е задание. Как должны поступить водители транспортных средств в данной ситуации?

С

4-е задание. Автобус остановился на остановке и показывает правый сигнал поворота.

С

ОТВЕТЫ

ВИДЫ ПЕРЕКРЕСТКОВ И ИХ ПЕРЕСЕЧЕНИЕ

1-е задание. В каком порядке транспортные средства должны пересекать перекресток в изображенной ситуации? Впиши в облачко!

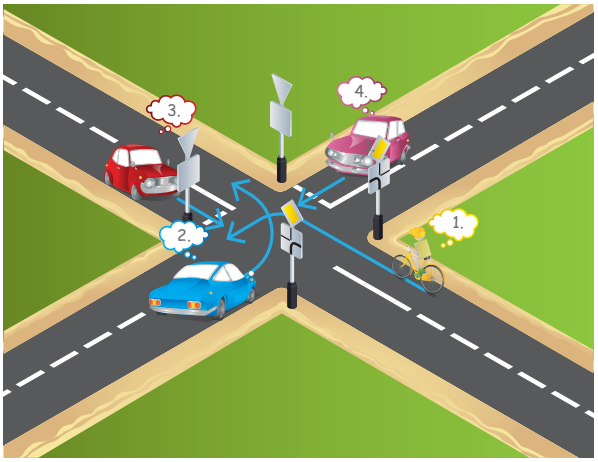

A



B

E

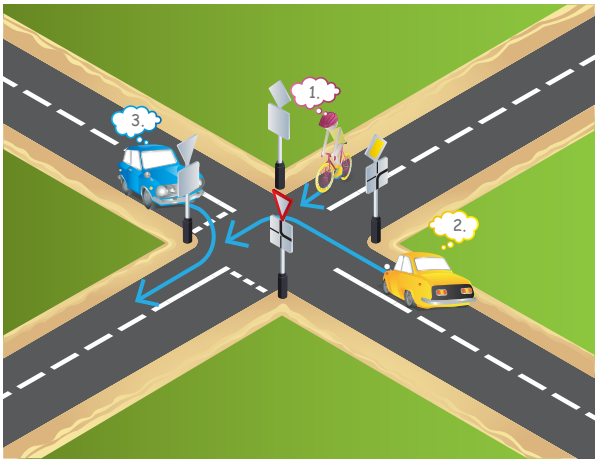

D

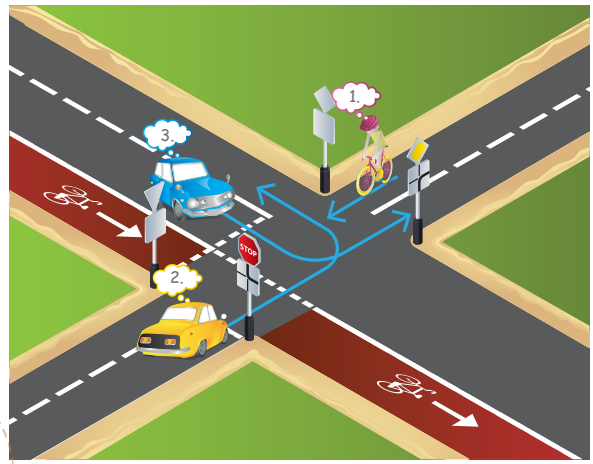

C

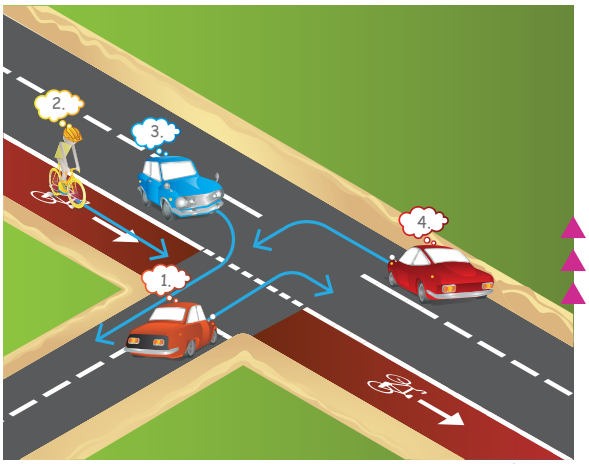

F

ВИДЫ ПЕРЕКРЕСТКОВ И ИХ ПЕРЕСЕЧЕНИЕ

2-е задание. Разрешает ли изображенный сигнал светофора поворот налево?

B

3-е задание. У водителя какого транспортного средства имеется преимущество движения в этой ситуации?

A

4-е задание. На светофоре горит зеленый сигнал с контуром человека. На остальных светофорах горит красный сигнал. Разрешается ли в данной ситуации водителю велосипеда передвигаться через улицу?

B

5-е задание. У водителя какого транспортного средства имеется преимущество?

B

6-е задание. У водителя какого транспортного средства имеется преимущество, если светофор показывает желтый сигнал?

B

7-е задание. В каком порядке эти транспортные средства должны пересекать перекресток?

C

БЕЗОПАСНОСТЬ ДОРОЖНОГО ДВИЖЕНИЯ

1. - C
2. - B
3. - C
4. - A
5. – C

ТРЕБОВАНИЯ К ВОДИТЕЛЮ ВЕЛОСИПЕДА

1-е задание. Назови составные части (детали) велосипеда.

1. ОТРАЖАТЕЛЬ (красный) 2. БАГАЖНИК 3. СИДЕНЬЕ 4. НАСОС (или помпа) 5. РАМА
6. РУЛЬ 7. ЗВУКОВОЙ СИГНАЛ (звонок) 8. ЗЕРКАЛО ЗАДНЕГО ВИДА (для обзора за спиной)
9. ПЕРЕДНИЙ ОТРАЖАТЕЛЬ (не соединенный с фарой) 10. ФАРА
11. КРЫЛО, ЗАЩИЩАЮЩЕЕ ОТ ГРЯЗИ 12. ВЕНТИЛЬ 13. СПИЦЫ
14. ОТРАЖАТЕЛИ (на спицах колес с обеих сторон оранжевые или желтые)
15. ПЕДАЛИ (с оранжевыми отражателями) 16. ШАТУНЫ (к ним крепятся педали)
17. ЦЕПНОЙ ЩИТ 18. ШИНА

Советы для учителя
1. Возле номера можно поставить первую букву названия составной части велосипеда.
2. Задания можно выполнять по группам – и по группам же сравнивать результаты выполнения заданий. Если какая-то группа не смогла назвать какую-либо составную часть велосипеда, ученики могут получить информацию у другой группы, которая правильно определила название этой составной части

2-е задание. Можно ли на таких велосипедах отправляться в дорогу?

A ДА

B НЕТ, так как у велосипеда нет отражателя на спицах

C НЕТ, так как у велосипеда нет спереди отражателя и нет звонка

D НЕТ, так как у велосипеда нет отражателя на спицах

E ДА

ПЕРВАЯ ПОМОЩЬ

1-е задание

1. - A
2. - B
3. - A
4. - C
5. - C
6. - A
7. - D
8. - C
9. - B
10. - B
11. - B
12. - A
13. - B
14. - C
15. - A
16. - C
17. - B

УМЕНИЕ УПРАВЛЯТЬ ВЕЛОСИПЕДОМ

1-е задание. Поставь на перекрестках данные дорожные знаки.

А

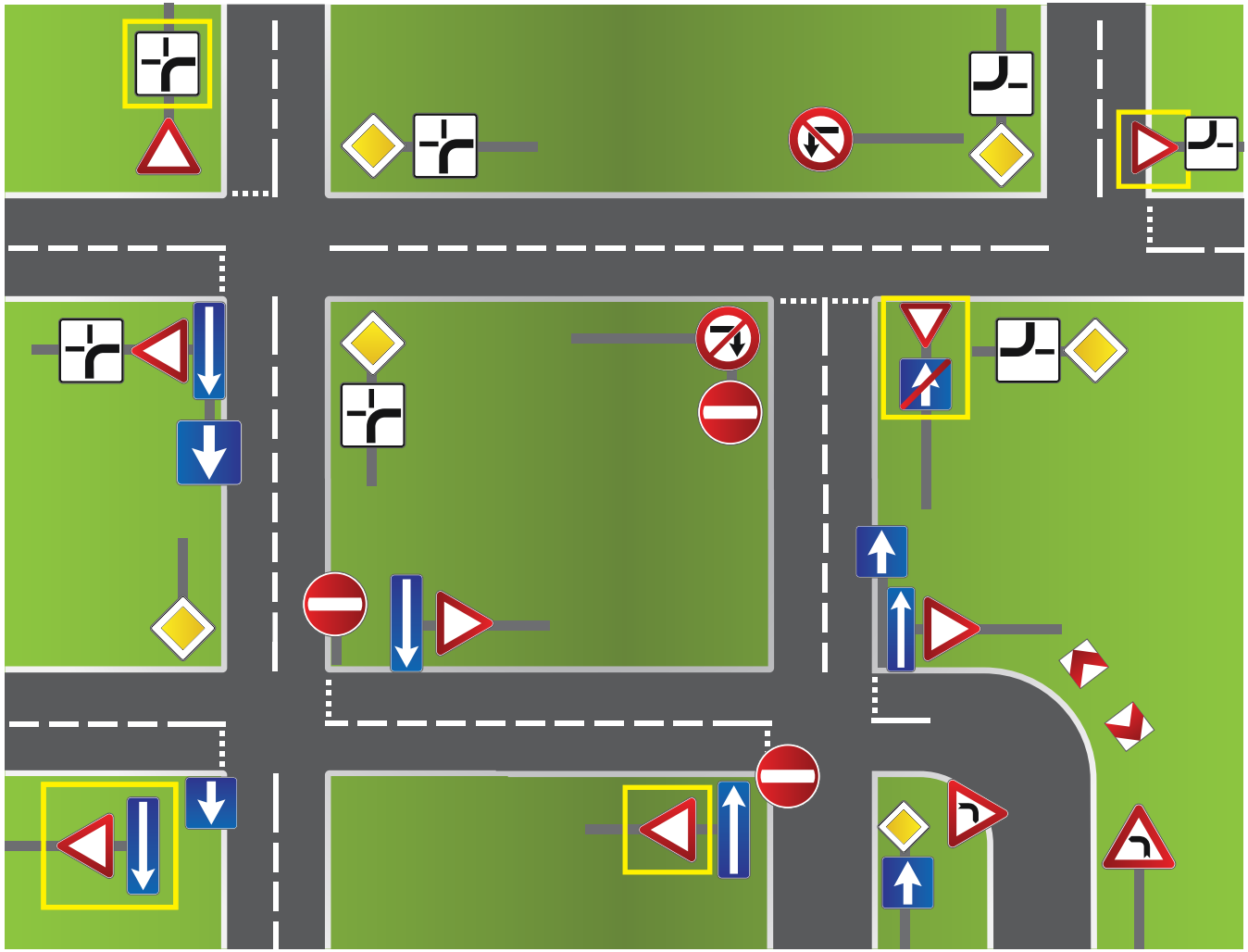

ОТВЕТЫ

УМЕНИЕ УПРАВЛЯТЬ ВЕЛОСИПЕДОМ

1-е задание. Поставь на перекрестках данные дорожные знаки.

В

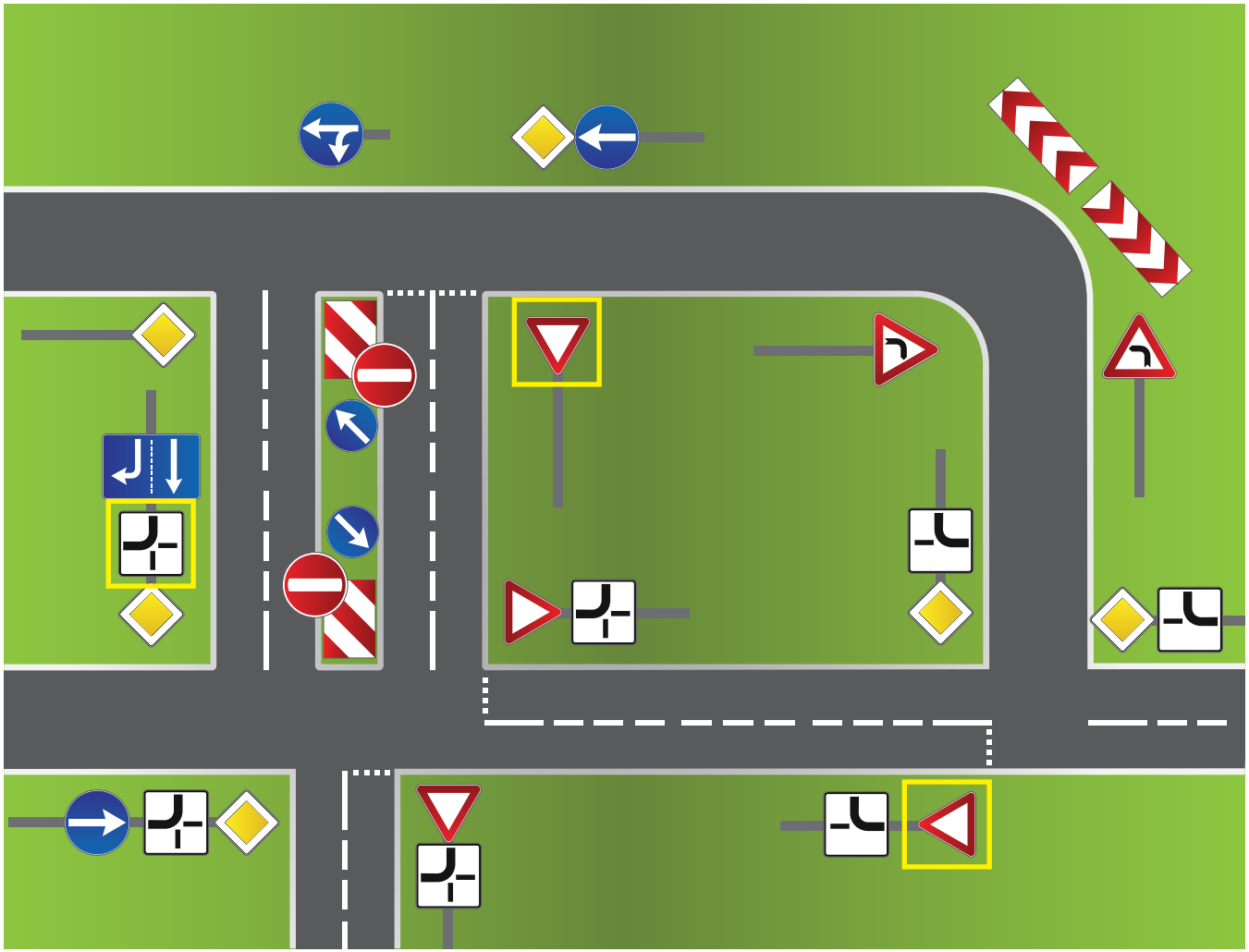

УМЕНИЕ УПРАВЛЯТЬ ВЕЛОСИПЕДОМ

2-е задание. ВЕЛОГОРОД/ЛАБИРИНТ

Упражнения проводятся в спортивном зале или на улице. Нужно двигаться на велосипеде по изображенному городку, соблюдая расставленные дорожные знаки. Лабиринт – это же задание выполняется графически на рабочем листе, где прокладывается правильный маршрут движения.

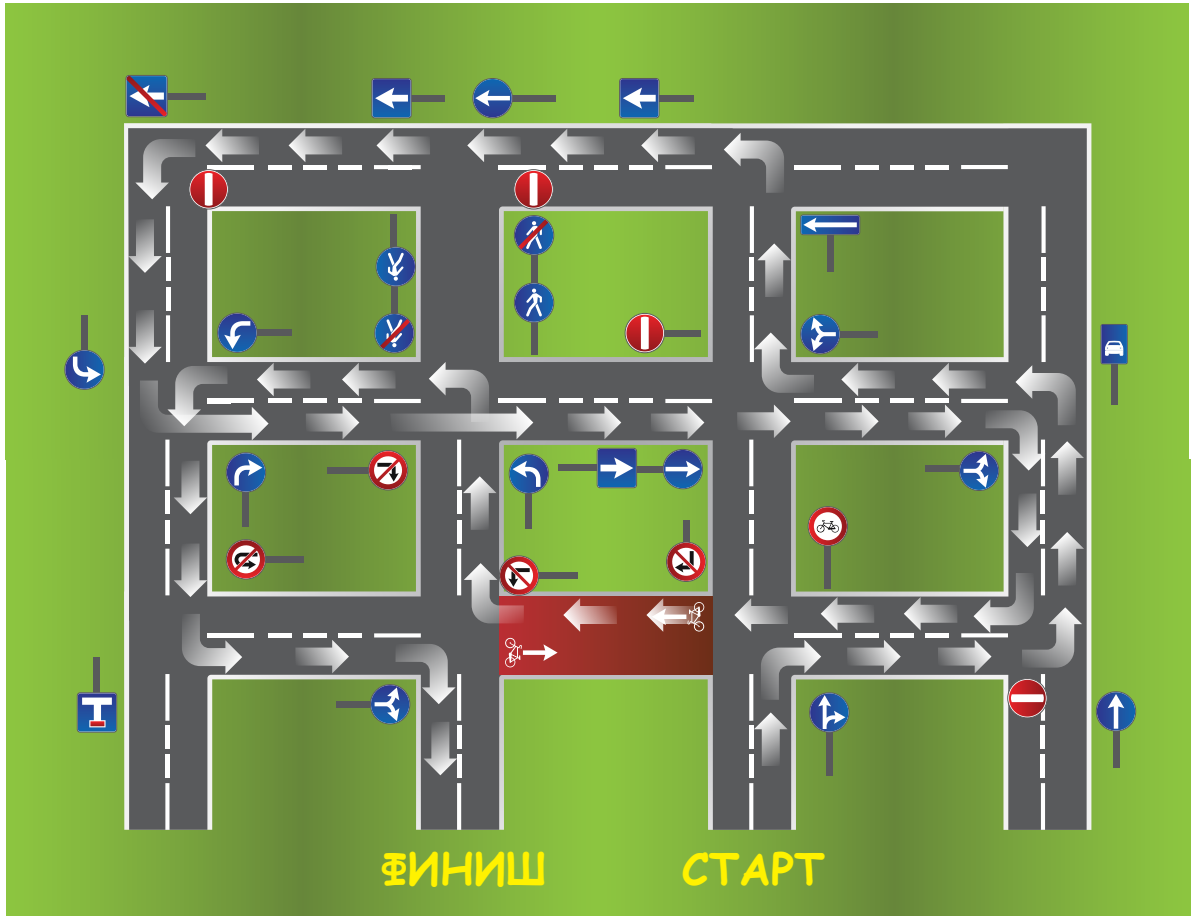

ОТВЕТЫ

УМЕНИЕ УПРАВЛЯТЬ ВЕЛОСИПЕДОМ

2-е задание. ВЕЛОГОРОД/ЛАБИРИНТ
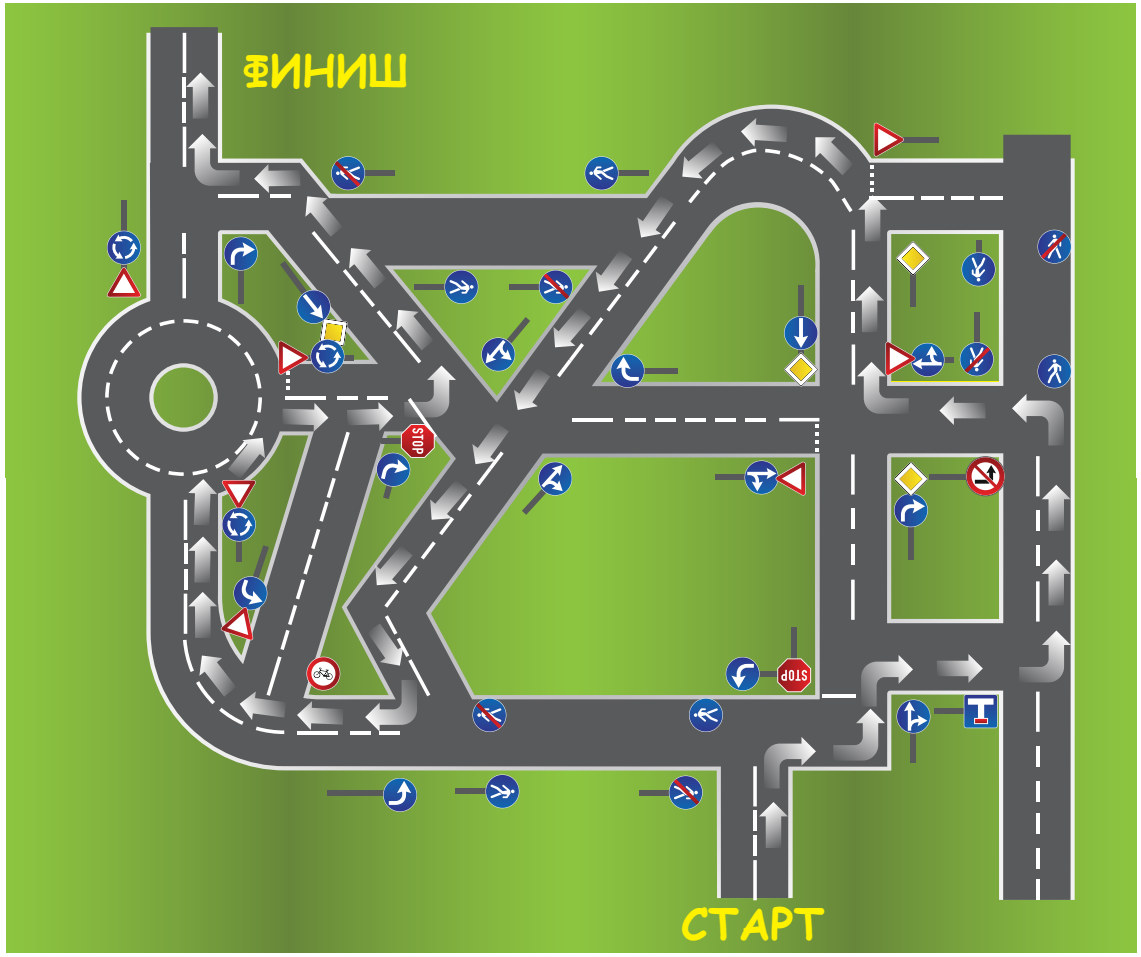
Упражнения проводятся в спортивном зале или на улице. Нужно двигаться по изображенному городку, соблюдая расставленные дорожные знаки. Лабиринт – это же задание выполняется графически на рабочем листе, где прокладывается правильный маршрут движения.